CORNÉLIO PROCÓPIO

PREFEITURA

PROCESSO SELETIVO SIMPLIFICADO (PSS) 2018

SECRETARIA MUNICIPAL DE SAÚDE DE CORNÉLIO PROCÓPIO

Cargo: ENFERMEIRO PSF

Duração da prova: 03 (três) horas, incluído o tempo para o preenchimento do cartão-resposta.

OBSERVAÇÃO: Você poderá entregar o caderno de provas e o cartão-resposta somente depois de decorrido o tempo de 1 hora de prova.

Orientações:

Escreva nesta capa de prova seu CPF ou RG e assine-o no espaço apropriado COM LETRA MAIÚSCULA e legível;

Confira se este caderno de provas corresponde ao Cargo para o qual se inscreveu;

Verifique se a sequência de questões, no total de 25, está correta, ou se há imperfeições gráficas que possam causar dúvidas;

Não é permitido o porte ou uso de equipamentos tais como: relógio, telefone celular, calculadora, pager, etc. (mesmo que inoperantes dentro da sala de aula);

Para cada questão objetiva são apresentadas 5 (cinco) alternativas de respostas (A, B, C, D, E). Apenas uma delas constitui a resposta correta em relação ao enunciado da questão;

Preencha o gabarito corretamente assinalando o quadro correspondente a letra da alternativa correta de cada questão no cartão resposta utilizando caneta esferográfica de tinta azul ou preta, no caso de rasura ou assinalar mais de uma alternativa, a questão será anulada.

A interpretação das questões é parte integrante da prova. Não será permitida a consulta aos fiscais e nem tão pouco a quaisquer formas fraudulentas;

Não é permitido qualquer tipo de consulta durante a realização da prova;

Caso necessite se ausentar da sala de prova antes do término desta, ou com duração mínima de 60 minutos, solicite do fiscal de sala o devido acompanhamento de um fiscal de volante;

Todas as provas estarão lacradas e só serão entregues aos fiscais 15 minutos antes do início de sua realização.

Comunique imediatamente aos fiscais ou à coordenação local qualquer irregularidade. Ao terminar, entregue ao fiscal o caderno de provas e o cartão resposta devidamente preenchido e assinado no campo apropriado. Não será permitido que o candidato leve o caderno de provas. Se desejar, utilize o canhoto abaixo, a fim de anotar suas respostas para posterior conferência.

Nº. do CPF ou do RG para identificação:

Assinatura do(a) candidato(a) COM LETRA MAIÚSCULA:

Destaque este canhoto. Ele é destinado exclusivamente para sua conferência

1	2	3	4	5	6	7	8	9	10	11	12	13	14	15	16	17	18	19	20	21	22	23	24	25

PROVA ENFERMEIRO PSF

01. O Protocolo de Manchester, ou Sistema de Triagem de Manchester (STM) (Sistema Manchester de Classificação de Risco), foi criado a partir de estudos do Grupo de Triagem de Manchester (GTM). Dessa forma, considerando que o paciente é classificado na cor laranja, o tempo máximo de espera recomendado para o atendimento é:

A) 20 minutos
B) 10 minutos
C) 0 minutos
D) 60 minutos
E) 120 minutos

02.Existem alguns princípios para a realização da terapia tópica em feridas. Para a realização de um cuidado adequado, determinadas regras e etapas devem ser respeitadas, mantendo o procedimento seguro e eficiente. Dessa forma, durante a realização da terapêutica tópica, são regras que devem ser respeitadas, exceto:

a) Preparar adequadamente o cliente, orientando-o e posicionando-o corretamente, respeitando sua privacidade.
b) Realizar a limpeza da área menos contaminada para a mais contaminada, em movimentos vai-e-vem.
c) Adequar o curativo ao tamanho da ferida.
d) Registrar o aspecto da ferida e o material utilizado para o curativo.
e) Manter curativo compressivo

03.A Constituição Federal de 1988 estabelece que a responsabilidade pelo financiamento do SUS é:

a) Das três esferas de governo, e cada uma deve assegurar o aporte regular de recursos ao respectivo Fundo de Saúde.
b) Das três esferas de governo, e não deve ser assegurado o aporte regular de recursos ao respectivo Fundo de Saúde.
c) É somente da União, a qual deve assegurar o aporte regular de recursos ao respectivo Fundo de Saúde.
d) É somente da União, a qual não deve assegurar o aporte regular de recursos ao respectivo Fundo de Saúde
e) É somente dos municípios, pois é a esfera de governo mais próxima ao usuário.

04.No que diz respeito às equipes de saúde da família (ESF) e aos núcleos de apoio à saúde da família (NASF), assinale a opção correta.

a) As ESF, os NASF e as equipes de saúde bucal vinculam-se a um número mínimo de famílias distribuídas ao longo do território em que estão situados.
b) A supervisão continuada das equipes multiprofissionais e a execução de protocolos de atendimento têm sido avaliadas como medidas de sucesso para a expansão do Programa Saúde da Família no território nacional.
c) As ESF são responsáveis por oferecer serviços de saúde por meio de ações de promoção, prevenção, recuperação, reabilitação e manutenção da saúde da comunidade.
d) Os NASF são responsáveis por promover ações verticais em saúde materno-infantil junto às populações de baixo risco.
e) Os NASF compartilham as mesmas responsabilidades e competências inerentes às equipes de saúde da família.

05.Assinale a opção correta relativa ao Programa Saúde da Família (PSF) do SUS.

a) Iniciado na década de 90, o PSF apresentou uma redução no número de usuários atendidos nos últimos anos em razão da menor adesão de gestores estaduais e municipais nas administrações mais recentes.
b) O PSF é uma estratégia de modelo assistencial, operacionalizada mediante a implantação de equipes de especialistas em hospitais regionais.
c) O PSF tem como proposição de ação uma abordagem terapêutica exclusivamente

centrada na patologia, visando primordialmente o diagnóstico e o tratamento.
d) No PSF, as equipes são responsáveis pelo acompanhamento de um número indefinido de famílias, em uma área geográfica não delimitada, conforme a demanda espontânea.
e) No PSF, as equipes atuam mediante ações de reabilitação de pacientes com doenças e agravos mais frequentes, bem como na manutenção da saúde da comunidade.

06. São fatores que interferem na temperatura corporal, coloque V para verdadeiro e F para Falso e assinale a alternativa correta:

( ) Idade: Rn e crianças são mais instáveis.;
( ) Exercícios: aumentam o metabolismo;
( ) Hormônios: mulheres > variação que homens; menstruação, ovulação e climatério promovem variações;
( ) Estresse: aumentam o metabolismo;
( ) Ambiente e a ingesta de líquidos.

A) V,V,V,V,F
B) V,V,F,F,V
C) F,F,F,V,V
D) V,V,V,V,V
E) F,F,F,F,V

07 . Complete a lacuna abaixo e assinale a alternativa correta:

_____ é uma metodologia científica que vem sendo cada vez mais implementada na prática assistencial , conferindo maior segurança aos pacientes , melhora da qualidade da assistência e maior autonomia aos profissionais de enfermagem.

A) Prescrição de Enfermagem
B) Sistematização da Assistência de Enfermagem.
C) Consulta de Enfermagem
D) Anotação de Enfermagem
E) Evolução de Enfermagem

08. São etapas do Processo de Enfermagem (PE), EXCETO:

a) Investigação (coleta de dados e exame físico);
b) Diagnóstico de enfermagem;
c) Planejamento (resultados esperados);
d) Implementação da assistência de enfermagem e avaliação da assistência de enfermagem;
e) Comunicação entre a equipe multidisciplinar;

09. Segundo o Manual de Rede de Frio do Ministério da Saúde, na primeira prateleira do refrigerador de vacina podem ser acondicionadas as vacinas _____ e _____, pois podem ser submetidas à temperatura negativa. Assinale a alternativa que completa correta e respectivamente as lacunas.

a) dT (Difteria e Tétano) / Vacina contra Raiva Humana.
b) Vacina Oral Poliomielite (VOP) / Vacina Inativada Poliomielite (VIP).
c) DTP (Difteria, Tétano e Coqueluche) / Haemophilus infl uenzae B.
d) Febre Amarela / SCR (Sarampo, Caxumba e Rubéola).
e) Vacina contra Raiva Humana / BCG.

10.) Sobre o exame de Papanicolaou, leia as frases abaixo e a seguir assinale a alternativa que corresponde a resposta correta.

I. A prevenção, ou exame de Papanicolaou, é considerado um exame de rastreamento por excelência para o câncer de colo uterino, sendo simples, prático e barato, embora apresente uma taxa de 10% de falso-negativo e sua especifi cidade seja maior que 90%.
II. Ao ser iniciada a atividade sexual, é necessária a realização do exame de Papanicolaou, não sendo conhecida a idade para a descontinuação de sua realização.
III. O risco de câncer de colo uterino é alto também nas mulheres que não são ativas sexualmente, por isso esse exame é obrigatório desde a adolescência feminina.
IV. As mulheres histerectomizadas não precisam mais realizar este exame.

Estão corretas as afirmativas:

a) Apenas as frases II,III e IV estão corretas.
b) Todas as frases estão corretas.
c) Apenas as frases I, II e III estão corretas.
d) Apenas as frases I e II estão corretas.
e) apenas a frase I está correta.

Informática

1)



A imagem apresentada mostra parte da barra de ferramentas do Word em um arquivo em edição. Se o usuário pretende alterar a orientação do texto de "retrato" para "paisagem", ele consegue fazer isso ao clicar com o *mouse* sobre a guia
(a) Inserir.
(b) Design.
(c) Layout.
(d)Referências.
(e)Correspondências

2)

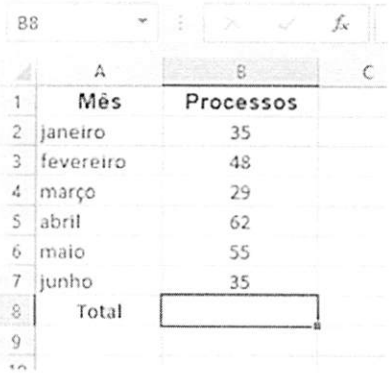

	A	B	C
1	Mês	Processos	
2	janeiro	35	
3	fevereiro	48	
4	março	29	
5	abril	62	
6	maio	55	
7	junho	35	
8	Total		
9			

A imagem apresentada mostra o preenchimento de uma planilha no Excel. Se o usuário pretende que o valor da soma dos processos apareça na célula B8, uma maneira de ele obter o valor correto, nessa célula, seria com a seguinte fórmula:
(a) =SOMA(A2:B7)
(b) =MEDIA(B2:B7)
(c) =SOMA(B2+B7)
(d) =SOMA(B2;B7)
(e) =MEDIA(B2;B7)

3)

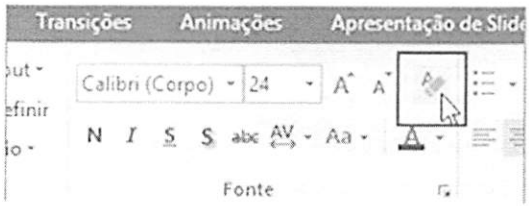

A imagem apresentada mostra parte da barra de ferramentas do PowerPoint. O botão indicado pela seta tem a função de
(a) limpar toda a formatação.
(b) formatar a fonte.
(c) apagar todo o texto.
(d) copiar a formatação.
(e) alterar o tamanho da fonte.

4) Um usuário de um computador digitou o seguinte endereço na Barra de endereços do navegador Internet Explorer:

https://www.google.com.br

Com relação ao endereço digitado, é correto afirmar que
(a)é um *site* de uma organização sem fins lucrativos.
(b)a troca de dados entre o navegador e o servidor do *site* é criptografada.
(c) é um *site* de uma organização não governamental.
(d) o *site* visitado é seguro, ou seja, livre de vírus e outros códigos maliciosos.
(e) é um *site* de uma organização governamental.

5) "Os leitores dos jornais continuam a diminuir, mais de 78 milhões de pessoas recebem suas notícias on-line. Cerca de 39 milhões de pessoas assistem a um vídeo online todos os dias e 66 milhões leram um blog. Ocorrem 16 milhões de postagem em blogs, criando uma explosão de novos escritores e novas formas de feedback dos clientes que não existiam há 10 anos atrás. O site de redes sociais Facebook atrai 134 milhões mensalmente e mais de 500 milhões em todo o

mundo. Empresas estão começando a usar ferramentas de rede social para conectar seus funcionários, clientes e gerentes em todo o mundo. Muitas empresas que frequentam o Fortune 500 agora têm Páginas do Facebook."

A partir das ideias expressas no texto acima, conclui-se que:
(a)A troca contínua de tecnologias digitais aumentou o número de certificações digitais.
(b)Os sistemas de informações estão transformando negócios.
(c)As videoconferências fazem parte incontestavelmente do cotidiano.
(d)As leis de segurança requerem o armazenamento de documentos on-line por 5 anos.
(e) NDA

QUESTÕES LÍNGUA PORTUGUESA

1) Leia o fragmento do conto "A terceira margem do rio" de Guimarães Rosa:

Sem alegria nem cuidado, nosso pai encalcou o chapéu e decidiu um adeus para a gente. Nem falou outras palavras, não pegou matula e trouxa, não fez alguma recomendação. Nossa mãe, a gente achou que ia esbravejar, mas persistiu somente alva de pálida, mascou o beiço e bramou: __ ***"Cê vai, ocê fique, você nunca volte!".***

Considere as seguintes afirmações sobre o trecho em negrito e assinale a alternativa **correta**.
I – Em sua fala, a personagem da mãe estabelece um tratamento em grau crescente de informalidade.
II – A repetição do pronome de tratamento tem por objetivo reiterar a proximidade do casal.
III – O tratamento que a mãe dá ao marido nessa fala incorpora a distância em que este se colocaria em relação à família.
(A) apenas a afirmação I está correta.
(B) apenas a afirmação II está correta.
(C) apenas a afirmação III está correta.
(D) estão corretas as afirmações I e II.
(E) estão corretas as afirmações II e III.

2) Sob o ponto de vista da ortografia, assinale a opção **verdadeira** em relação às frases abaixo:
I – Durante o regime militar, muitos políticos tiveram seus mandatos caçados e foram exilados.
II – Os detentores do poder anseiam sempre por subjulgar os mais fracos.
III – Os governantes que verdadeiramente respeitam a liberdade dos indivíduos não deveriam ser uma exceção.
(A) Apenas a I está correta.
(B) Apenas a II está correta.
(C) Apenas I e III estão corretas.
(D) Apenas a III está correta.
(E) Todas as frases estão corretas.

3) Assinale o item em que há **ERRO** quanto à determinação do gênero.
(A) Deu certo o estratagema.
(B) Personagem, pessoa importante: se é homem dizemos o personagem, se é mulher, a personagem.
(C) Bidu Saião é o soprano brasileiro mais conhecido nos Estados Unidos.
(D) Ele era o chefe daquele clã.
(E) O atleta ungira os braços até os omoplatas.

4) Considerando a concordância nominal, assinale a frase **correta**:
(A) Ela mesmo confirmou a realização do encontro.
(B) Foi muito criticado pelos jornais a reedição da obra.
(C) Ela ficou meia preocupada com a notícia.
(D) Muito obrigada, querido, falou-me emocionada.
(E) Anexos, remeto-lhes nossas últimas fotografias.

5) Assinale a alternativa em que a concordância verbal **destoa** da norma culta:
(A) Mais de 40% da população cumpre uma jornada de 45 horas semanais.
(B) Mantêm-se ainda no Brasil vergonhosos índices de desigualdade social.
(C) Devem ocorrer surpresas no próximo censo.
(D) Estima-se haver mais de 11 milhões de desempregados no país.
(E) Trinta milhões de analfabetos são um índice social deplorável para o país.

MATEMÁTICA E RACIOCÍNIO LÓGICO

1) A Prefeitura de uma certa cidade precisa instalar postes de iluminação numa determinada avenida, de maneira que a distância entre dois postes consecutivos seja sempre a

mesma. Sabendo que a avenida tem 108 metros de comprimento e que serão instalados 9 postes com um em cada extremo da avenida, qual a distância entre dois postes consecutivos?

a) 10,8 m
b) 12m
c) 13,5m
d) 14
e) 15

2) Quantos anagramas podemos formar com as letras da palavra SAÚDE, que comecem com vogal e terminem por consoante?

a) 24
b) 36
c) 48
d) 72
e) 120

3) Numa urna existem 10 cartões numerados de 1 a 10. Dessa urna serão retirados dois cartões sucessivamente, sem reposição. Qual a probabilidade do segundo cartão retirado ser o dobro do primeiro?

$a)\frac{9}{10}$

$b)\frac{2}{9}$

$c)\frac{1}{9}$

$d)\frac{5}{18}$

$e)\frac{1}{18}$

4) Seis rapazes são capazes de realizar uma tarefa trabalhando juntos, em 8 horas. Porém, após três horas de trabalho um desses rapazes passou mal e precisou ir embora. Se nenhum outro precisar abandonar a tarefa, quantas horas ainda serão necessárias para concluir a tarefa?

a) 4 h
b) 5 h
c) 5 h 30 horas
d) 6 h
e) 6h 30 horas

5) Após um aumento de 12%, um livro passou a custar R$ 67,20. Qual o valor desse livro antes do aumento?

a) R$ 60,00
b) R$ 60,94
c) R$ 61,50
d) R$ 62,00
e) R$ 62,28